MATEMÁTICAS – 4º de E.P. - martes, 21 de abril

Buenos días a todos/as:

- Hoy, día 21, empezaremos corrigiendo el ejercicio que os dejé ayer:

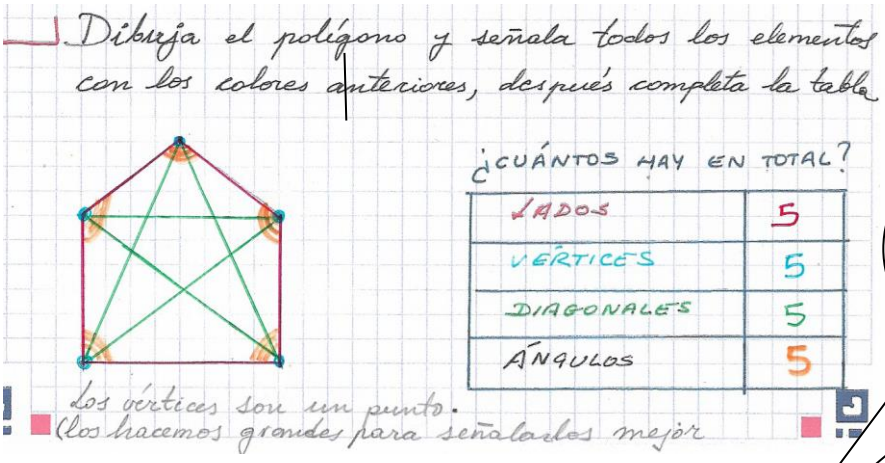

Como ves, las respuestas son siempre 5. Esto no es siempre así, sólo pasa en el caso de cinco lados

- A continuación, seguiremos conociendo a:

Familia

POLÍGONOS

En esta sesión trabajaremos sobre las:

CLASES DE POLÍGONOS (según sus lados)

Comprueba que la tabla te va a caber completa en la misma página, sino empieza en página nueva.

¡¡¡¡Mucho ánimo y vamos a empezar!!!!!

PREPARADOS / AS ????

CLASES DE POLÍGONOS (según sus lados)

LADOS	NOMBRE
3	triángulo
4	cuadrilátero
5	pentágono
6	hexágono
7	heptágono
8	octógono
9	eneágono
10	decágono

Según sus lados nos quiere decir que los polígonos tienen distinto nombre dependiendo de cuántos lados tienen

- Dibuja los polígonos, y escribe su nombre (según el número de lados):

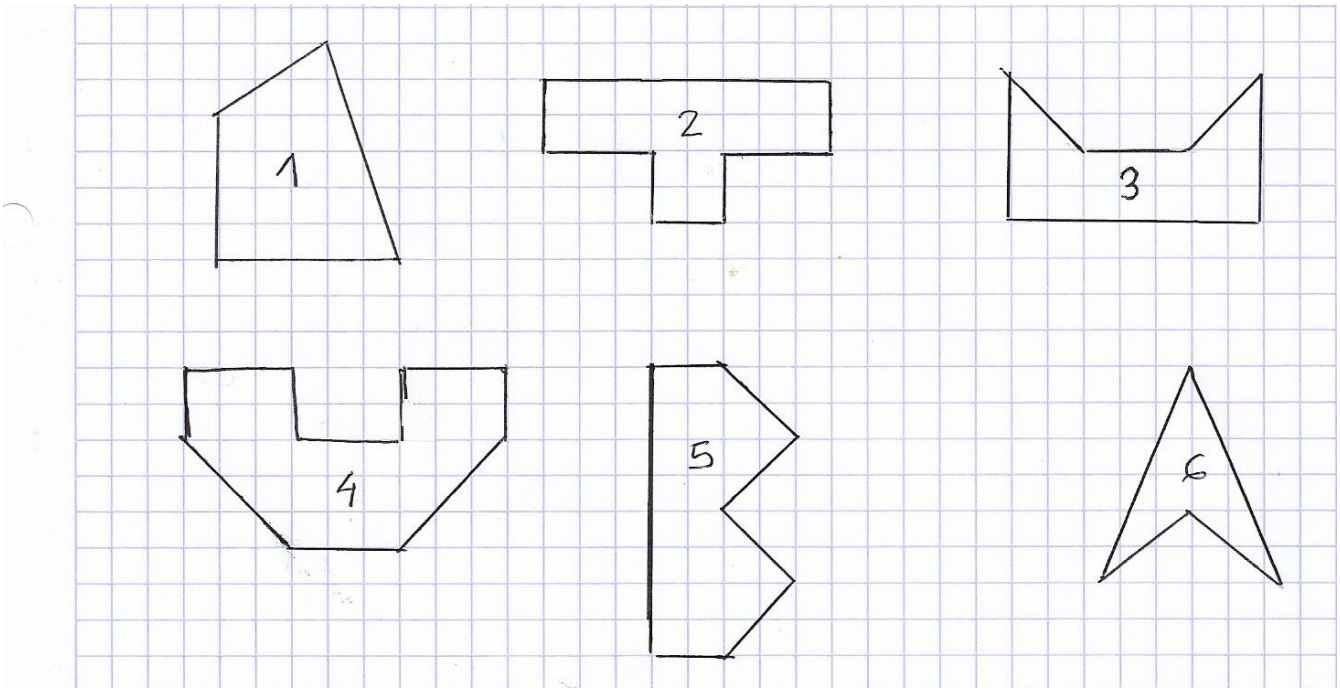

- Dibuja los polígonos, escribe su nombre y traza todas las diagonales (*repasa qué es una diagonal*):

En la siguiente página te doy indicaciones para dibujar los polígonos de forma sencilla

1

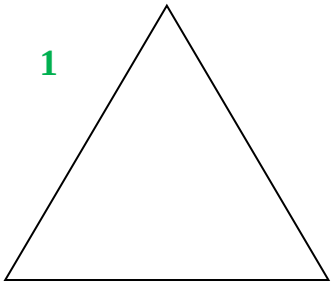

2



3

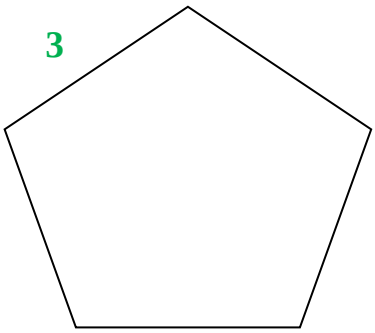

4

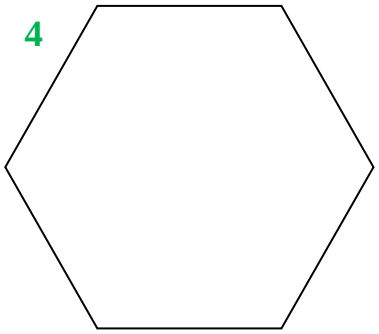

- Completa el cuadro sobre los polígonos anteriores.

POLÍGONO	NOMBRE	Nº LADOS	Nº VÉRTICES	Nº DIAGONALES
1				
2				
3				
4				

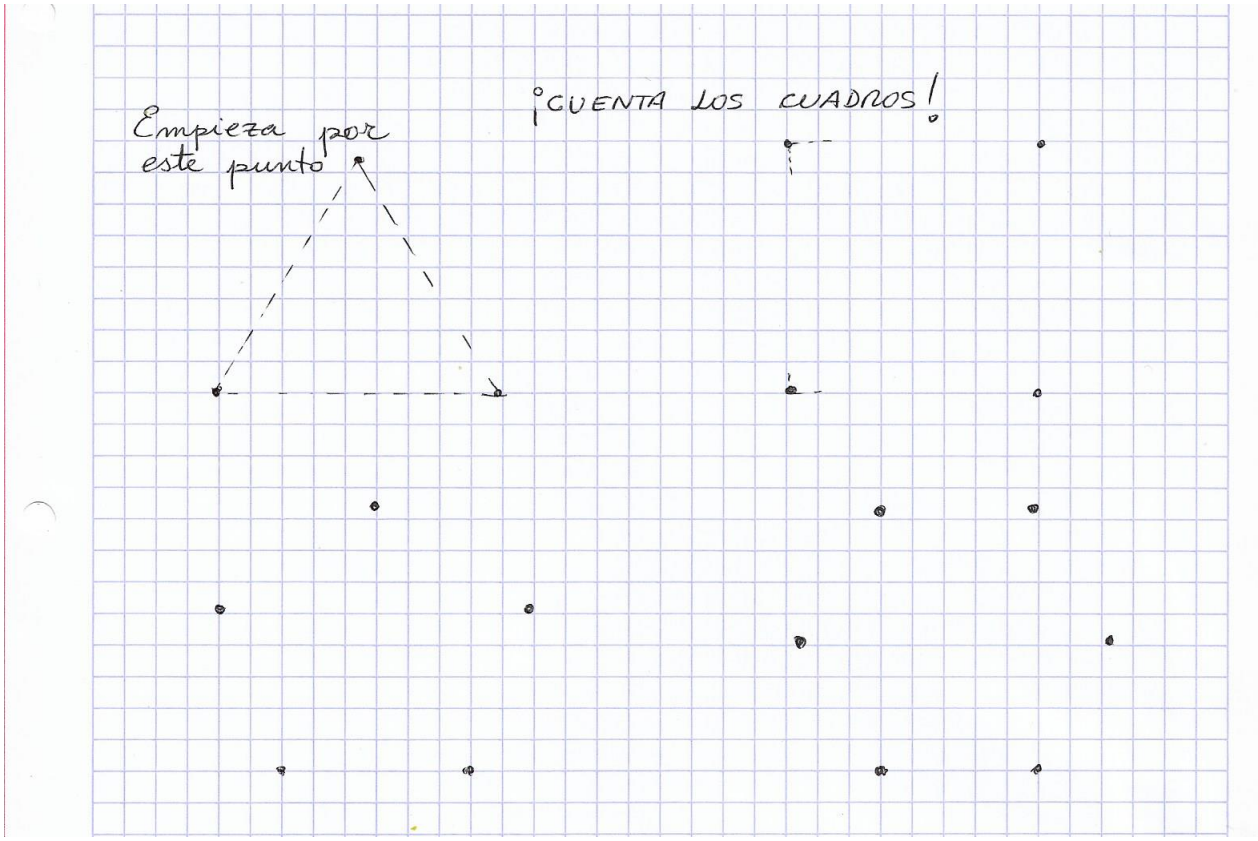

AQUÍ TERMINAMOS por hoy,...

Mañana conoceremos a

Los TRIÁNGULOS

¡Quédate en