MATEMÁTICAS – 4º de E.P. - jueves, 23 de abril

Buenos días a todos/as:

- Hoy, día 23, no tenemos ejercicios para corregir, por lo tanto nos disponemos a empezar con la:

CLASIFICACIÓN DE LOS TRIÁNGULOS

- Vamos a organizar el trabajo de la forma siguiente:

1º- Ver vídeo 1. Triángulos según sus lados

2º- Pasa a la libreta la explicación del primer cuadro (triángulos según sus lados), para esto tienes la hoja siguiente para copiar, y a continuación, te mando la hoja cuadriculada que te ayuda a distribuir el espacio (*al verla te parecerá muy difícil, pero mira con atención y ya veras como la consigues hacer. Los puntos son los vértices de los triángulos*)

1º- Ver vídeo 2. Triángulos según sus ángulos

2º- Pasa a la libreta la explicación del segundo cuadro (triángulos según sus ángulos). Lo haces como antes. En estos triángulos tienes que colorear los ángulos antes de colorear el resto del triángulo.

- Por supuesto, para hacer los triángulos, primero con con lápiz y regla.
- Todos coloreados.

¡¡¡¡¡Mucho ánimo y vamos a empezar!!!!!

PREPARADOS / AS ????

TRIÁNGULOS

SEGÚN SUS **LADOS**		
EQUILÁTERO	**ISÓSCELES**	**ESCALENO**
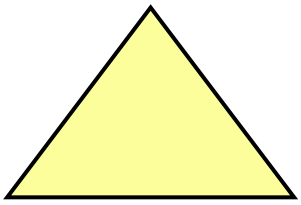	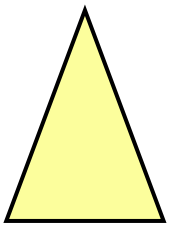	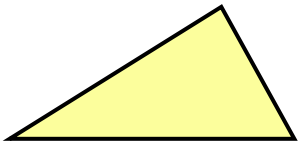
Tiene 3 lados iguales	Tiene 2 lados iguales	Tiene 3 lados distintos

SEGÚN SUS **ÁNGULOS**		
ACUTÁNGULO	**RECTÁNGULO**	**OBTUSÁNGULO**
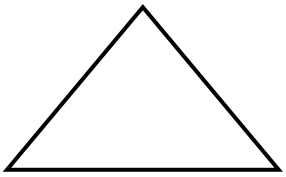	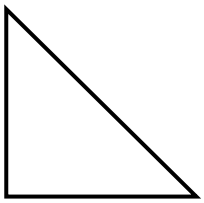	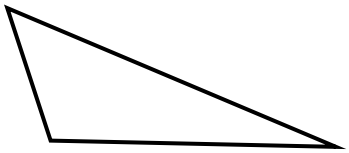
Tiene 3 ángulos agudos	Tiene 1 ángulo recto	Tiene 1 ángulo obtuso

En estos últimos triángulos tienes que colorear primero los ángulos que te indiqué en el vídeo, que corresponden con lo que dice la definición; luego coloreas el resto de triángulo, para que no se "emborrone"

TRIÁNGULOS

los números indican los □ que tenéis que contar

SEGÚN SUS LADOS

E	I	E
2 / 3 / 6 / 3	1 / 4 / 4 / 4	3 / 4 / 2 / 8 / 2
Tiene 3		

borrad esta raya

SEGÚN SUS ÁNGULOS

A	R	O
3 / 2 / 8 / 2	2 / 3 / 6 / 3	2 / 2 / 5 / 6 / 1
Tiene 3		

AQUÍ TERMINAMOS por hoy,...

El lunes ya no habrá triángulo
que se nos resista¡¡¡

¡Quédate en