AULA P.T
3º, 4º Y 6º

TAREAS PARA LA SEMANA DEL 30 DE MARZO AL 3 DE ABRIL!
TENÉIS MI CUENTA DE CORREO, ESTOY PARA LO QUE NECESITEIS!!
DESDE AQUÍ OS SIGO ENVIANDO MUCHO ÁNIMO Y MUCHAS GRACIAS POR TRABAJAR CON LOS NIÑOS.

CURSO 3º DE PRIMARIA:
(grupo Claudia)

- Seguimos trabajando los días de la semana con los videos indicados de la semana pasada.

- Para trabajar los números podemos ver un video que le gusta mucho.
  Ponemos: "el uno es un soldado haciendo la instrucción". O el siguiemte enlace:

https://www.youtube.com/watch?v=4KN_BuhCfVc

CURSO 3º DE PRIMARIA:
(grupo Noelia y Álvaro)

❖ Cómo no vamos a aumentar tareas nuevas y es complicado y en ocasiones imposible imprimir las ficha para hacer trabajaremos con videos y con una guía sobre actividades que les podéis poner.

- Seguimos trabajando los días de la semana y el mes del año, con los videos de la semana pasada.

- Repasamos consonantes del libro del abecedario que estábamos elaborando, trabajadas hasta ahora.

- Para ello esta semana empezamos a repasar la b, c ,d y f.

Nos ayudaremos de los siguientes videos del monosílabo. Escribimos:

•**video de la letra** B **con monosílabo** o en el enlace:

https://www.youtube.com/watch?v=o6axPDGbCdo

Lo mismo con el resto de letras: c, z, d y f.

CURSO 3º DE PRIMARIA:
(grupo Noelia y Álvaro)

- El día que vemos un video de una de las letras, recomiendo hacerlo por orden haremos actividades del siguiente tipo para que las interioricen un poco más.

1) Pintar una letra doble (mayúscula y minúscula) y que la coloreen:

Si pueden les quedaría bonito tipo mural en folios de colores o pintados por ellos o en cartones,…en cualquier material, incluso con plastilina.

2) Buscar en cuentos, revistas, folletos,… la letra que están trabajando, si pueden que rodeen la letra cuando la encuentran.

3) De forma oral que repitan palabras con la letra dada.

➢ Para trabajar los números haremos actividades del tipo:

1) Seguimos haciendo sumas y restas podemos dibujarles palitos así los cuentan y suman o los tachan para las restas. Cómo el ejemplo:

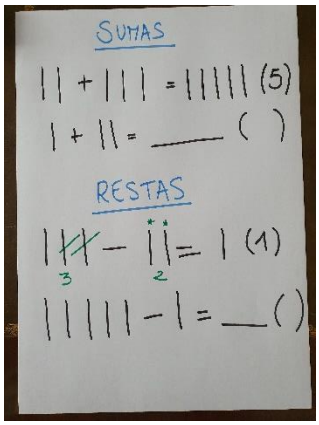

2) Para repasar las figura geométricas les podemos hacer dibujos y que unan con su nombre:

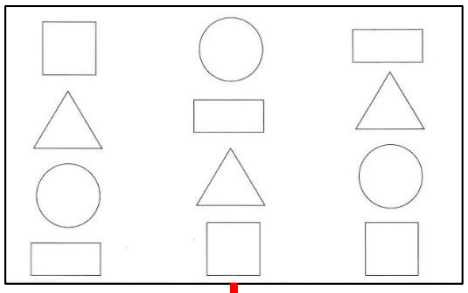

Pintar varias y que coloreen de rojo los triángulos, de azul los cuadrados, de verde los círculos y de amarillo los rectángulos.

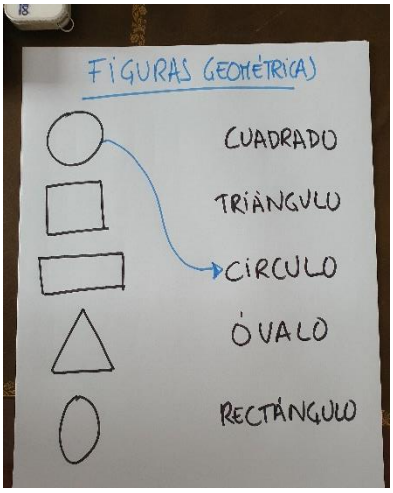

CURSO 4º y 6º DE PRIMARIA:
(grupo Aisha e Iker)

- Seguimos trabajando los meses del año, con el video de Dino. Y seguimos marcando en un calendario el día de la semana que es.

- Trabajamos la lectura (mando una y algunas preguntas) También es bueno que lean algún libro de ellos que les guste.

- Hacemos dictado de palabras: cómo habíamos trabajado algunas trabadas podemos ponerles algunas palabras como:

  PLATANO, PRINCESA, PLOMO, PRISA,...
  BLUSA, BRUJA, TABLA, BROCHA,...
  (pronunciando fuerte y claro la bl, br, pl y pr)

- Repasamos los artículos y lo suntativos con fichas como estas:

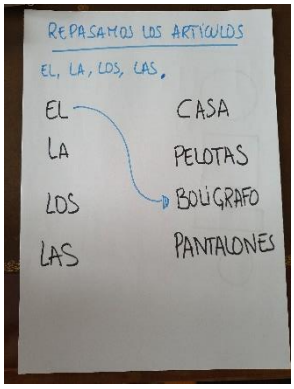

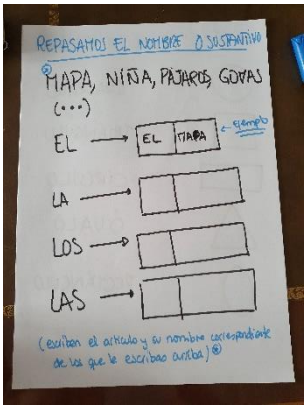

1) LECTURA:

MARTÍN EL PEZ

MARTÍN ES UN PEZ
ÉL ES ROJO Y
AMARILLO. LE GUSTA
NADAR. MARTÍN
PUEDE NADAR MUY RÁPIDO.

DIBUJA UN PEZ

2) COMPRENSIÓN LECTORA:

- ¿QUÉ ES MARTÍN?

_____

- ¿DE QUÉ COLOR ES?

_____

- ¿QUÉ PUEDE HACER?

_____

- ¿CUÁL ES TU ANIMAL PREFERIDO?

_____

➢ Trabajamos con los números:

1) Practicar sumas y restas cómo las de la semana anterior.

2) Lectura de números del 1 al 50.

3) Completar números que faltan:

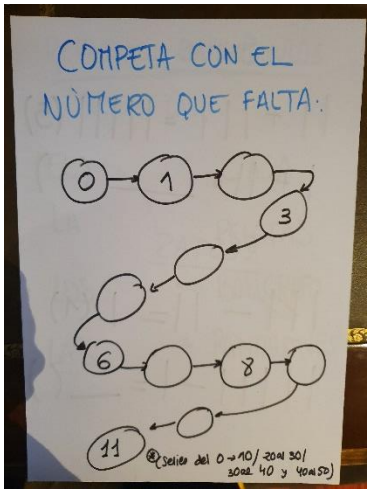

4) Repasar las figuras geométricas: (siguiente hoja las figuras que hemos visto en clase)

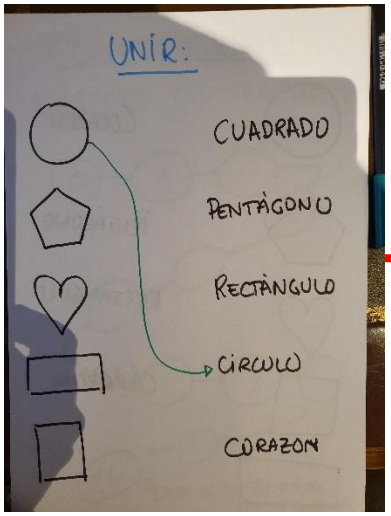

Les dibujamos figuras y que unan con su nombre correcto.

FIGURAS GEOMÉTRICAS

CURSO 6º DE PRIMARIA:
(grupo Joel)

- Trabajamos la escritura, copiar un texto con letra clara:

El pirata vestido de pirata

Con un ojo tapado y un pañuelo de lunares para no despeinarse, con un pantalón corto y botas marrones, por los mares del mundo navegando voy yo.
¿Sabes quién soy?
Vivo en un barco velero que se llama Buena Pata y recorro el mundo entero. Soy valiente.
¡Soy el capitán Pirata!.

Se le puede dictar y ya lo va escribiendo.

Sería bueno marcarle las líneas.

- A continuación corregirá los fallos.

➢ Para trabajar las matemáticas seguiremos con algunas operaciones::

$$\begin{array}{r} 8414 \\ +\ 4143 \\ \hline \end{array} \qquad \begin{array}{r} 1392 \\ +\ 8148 \\ \hline \end{array} \qquad \begin{array}{r} 6254 \\ +\ 2392 \\ \hline \end{array}$$

$$\begin{array}{r} 488 \\ -154 \\ \hline \end{array} \qquad \begin{array}{r} 707 \\ -\ 56 \\ \hline \end{array} \qquad \begin{array}{r} 966 \\ -349 \\ \hline \end{array}$$

$$\begin{array}{r} 76950 \\ \times\ 4 \\ \hline \end{array} \qquad \begin{array}{r} 97094 \\ \times\ 3 \\ \hline \end{array} \qquad \begin{array}{r} 40684 \\ \times\ 8 \\ \hline \end{array}$$

➢ Problemas:

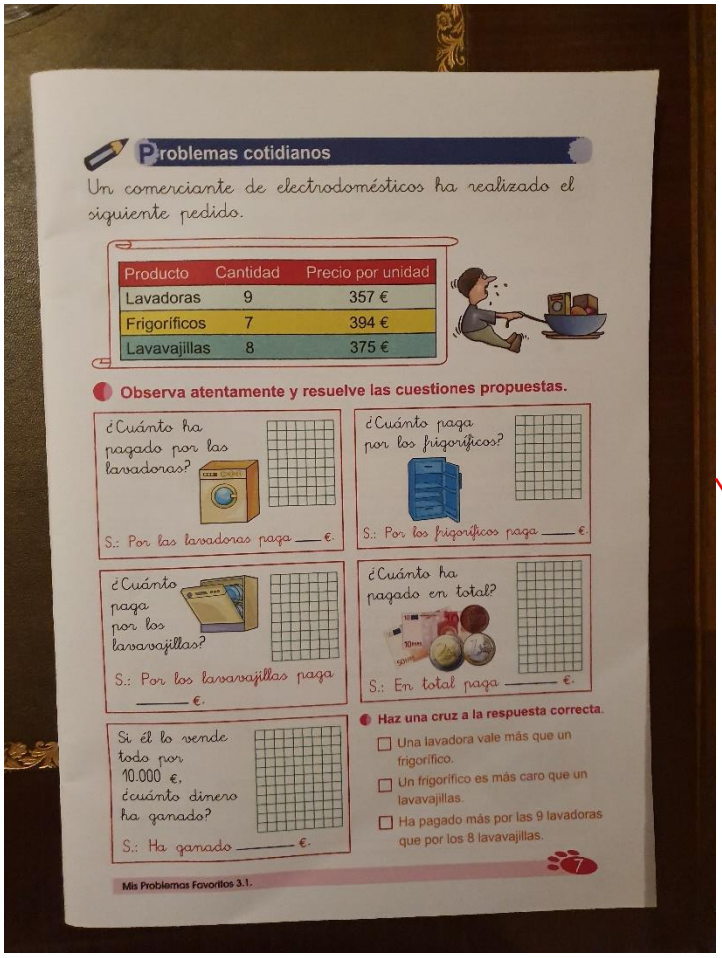

Problemas cotidianos

Un comerciante de electrodomésticos ha realizado el siguiente pedido.

Producto	Cantidad	Precio por unidad
Lavadoras	9	357 €
Frigoríficos	7	394 €
Lavavajillas	8	375 €

Observa atentamente y resuelve las cuestiones propuestas.

¿Cuánto ha pagado por las lavadoras?

S.: Por las lavadoras paga ____ €.

¿Cuánto paga por los frigoríficos?

S.: Por los frigoríficos paga ____ €.

¿Cuánto paga por los lavavajillas?

S.: Por los lavavajillas paga ____ €.

¿Cuánto ha pagado en total?

S.: En total paga ____ €.

Si él lo vende todo por 10.000 €, ¿cuánto dinero ha ganado?

S.: Ha ganado ____ €.

Haz una cruz a la respuesta correcta.

- ☐ Una lavadora vale más que un frigorífico.
- ☐ Un frigorífico es más caro que un lavavajillas.
- ☐ Ha pagado más por las 9 lavadoras que por los 8 lavavajillas.

Mis Problemas Favoritos 3.1. 7

No hay que imprimirlo, que lea el problema y las operaciones las hace en una hoja aparte.

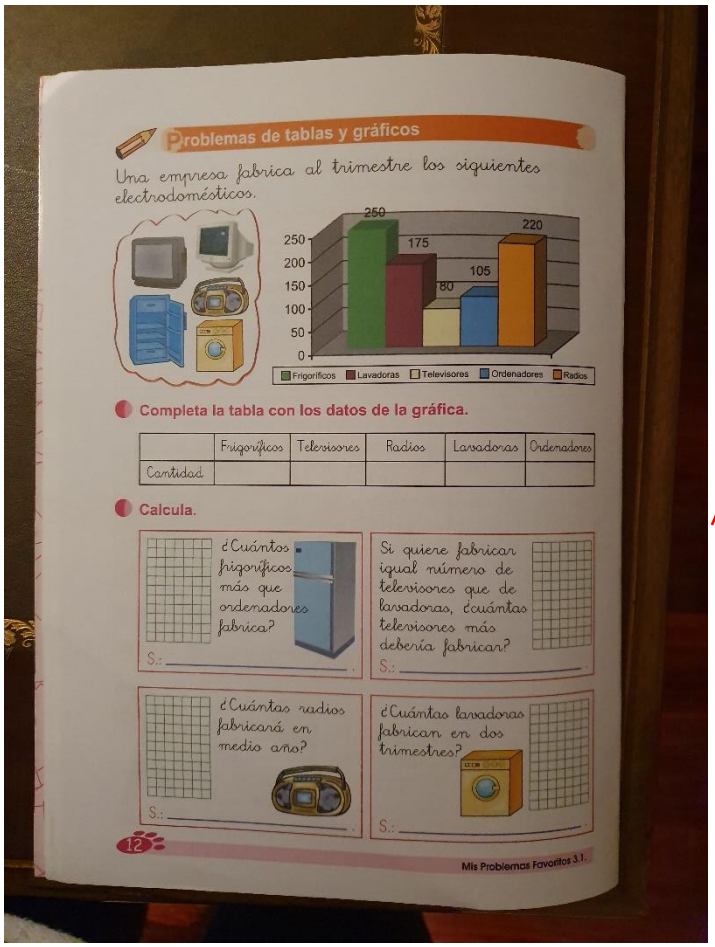

Problemas de tablas y gráficos

Una empresa fabrica al trimestre los siguientes electrodomésticos.

Completa la tabla con los datos de la gráfica.

	Frigoríficos	Televisores	Radios	Lavadoras	Ordenadores
Cantidad					

Calcula.

¿Cuántos frigoríficos más que ordenadores fabrica?

S.: ____

Si quiere fabricar igual número de televisores que de lavadoras, ¿cuántas televisores más debería fabricar?

S.: ____

¿Cuántas radios fabricará en medio año?

S.: ____

¿Cuántas lavadoras fabrican en dos trimestres?

S.: ____

12 Mis Problemas Favoritos 3.1.

CURSO 4º DE PRIMARIA:
REFUERZO EDUCATIVO

- Repasamos la letra d. leer las palabras siguientes:

dado dedo dido duda doda

ado ide edo uda odo ade

dadar dirdu durdo dedir dorde

dodra drida dudru dedro dredi

drador durdre dirdri dardor dredra

pomada dalia moneda duende dime

cadena dinero diadema duele dos

- Dictado de palabras:

botón- dedo- bota- dado- boda- día- bote-

balón- derramar- bien- duermo- bueno- doy

diadema- bonito- diez- dulce- barra- dorado

➢ Diferenciamos entre B y D:

RODEA B:

b d b b d d b b d b d b d d b b d

RODEA D:

d b b d d b d b d d b d b b d d b

RODEA B:

d b b d d b b d b d d b b d d b b

RODEA D:

b d d b d d b b d b d d b d b d b

Copiar filas con las letras d y b y que rodee la que le indiquéis.